Nu-d 610

Quels sont les nombres qui sont sur cette droite ?

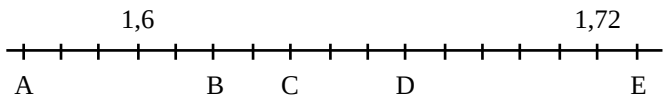

A :
B :
C :
D :
E :

Nu-d 611

Quels sont les nombres qui sont sur cette droite ?

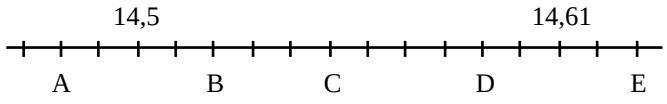

A :
B :
C :
D :
E :

Nu-d 612

Quels sont les nombres qui sont sur cette droite ?

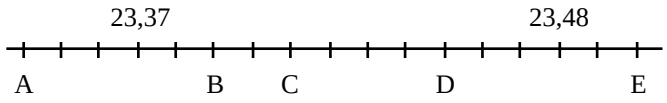

A :
B :
C :
D :
E :

Nu-d 613

Quels sont les nombres qui sont sur cette droite ?

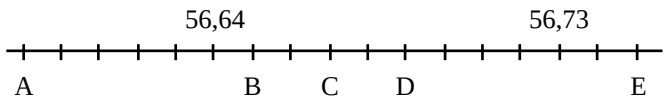

A :
B :
C :
D :
E :

Nu-d 614

Quels sont les nombres qui sont sur cette droite ?

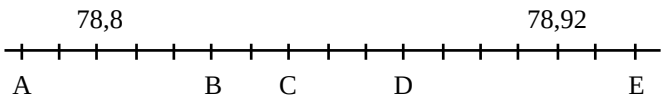

A :
B :
C :
D :
E :

Nu-d 615

Quels sont les nombres qui sont sur cette droite ?

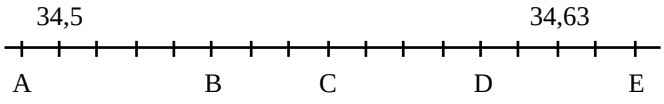

A :
B :
C :
D :
E :

Nu-d 616

Quels sont les nombres qui sont sur cette droite ?

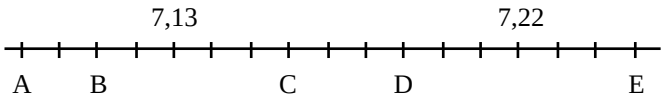

A :
B :
C :
D :
E :

Nu-d 617

Quels sont les nombres qui sont sur cette droite ?

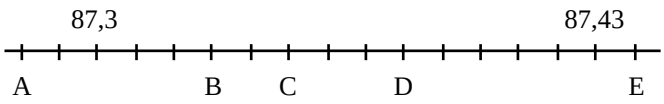

A :
B :
C :
D :
E :